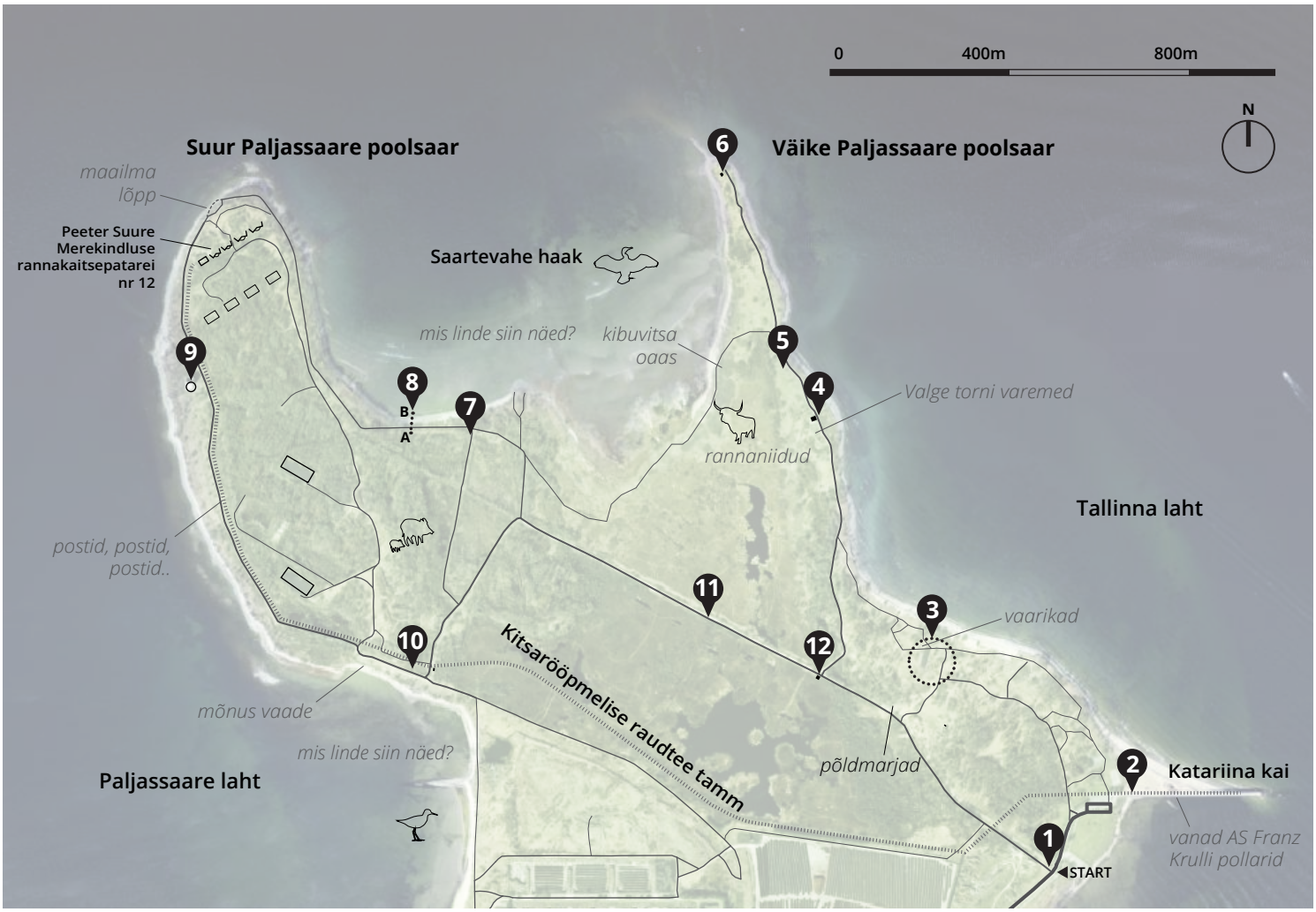

ЛАНДШАФТНАЯ ИГРА НА ПАЛЬЯССААРЕ

Контрольные пункты в пешей игре можно проходить в любом порядке.
Число участников в пешей игре не ограничено, желательно группы в 2-3 человека.
Будь внимательным и ответственным, следуй правилам пребывания на территории природоохранной зоны.
Передвигаясь, будь внимательным – на её территории находятся заброшенные объекты и обваливающиеся пешие тропы.

1

ПРИРОДООХРАННАЯ ЗОНА. Когда нельзя находиться на территории птичьего заповедника и почему?

2

ИСТОРИЯ. Измерь в метрах протяженность насыпи узкоколейной железной дороги. Используй масштаб карты, который указан в верху.

3

ГОРОДСКОЕ ПРОСТРАНСТВО. Найди отмеченное на карте пустое здание, которое видно из контрольного пункта. Что можно из этого здания сделать? Чем можно было бы там заниматься? Запиши или нарисуй ответ в клетку ответа.

4

ВИДИМОСТЬ. Найди на контрольном пункте место, откуда сделано фото. Что на фото вырезано? Дополни фото в клетке ответа: дорисуй то, что видно из контрольного пункта!

5

ПИТАНИЕ. Ты находишься на прибрежном лугу. Идя по лугу, отмерь шагами участок в 8x10 метров. На такой территории прибрежного луга одна корова питается и «косит траву” в течение дня.

6

ЭНЕРГИЯ. Ты находишься рядом с морским радаром. Определи направление ветра на данный момент. Двигайся в этом направлении, пока ты не дойдешь до какой-нибудь преграды. Что послужило преградой? Нарисуй или опиши этот природный элемент/объект в клетку ответа.

7

ОКРУЖАЮЩАЯ СРЕДА. Выбери один бетонный столб и прислонись к нему или найди дерево и обними его. Закрыв глаза, побудь минуту в тишине. Просто прислушайся. Какие звуки ты слышишь? Запиши в клетку ответа, какие природные или искусственные звуки ты слышал.

8

ЛАНДШАФТ. Идя из пункта А в пункт В старайся разглядеть различные напочвенные покровы и виды ландшафта. Сколько различных напочвенных покровов и видов ландшафта ты насчитал?

9

СТОЧНЫЕ ВОДЫ. Ты находишься около воздухоразделительного колодца и колодца по гашению давления станция очистки бытовых сточных вод Пальяссааре. Какова длина окружности этой бочки (U)? Какая у неё высота (h)? Ты сможешь рассчитать приблизительный объем бочки (V)?

10

ТЕЛО КАК ПРОСТРАНСТВО. Какие положения тела позволяют принять/мотивируют принять бетонные объекты, находящие в контрольном пункте? Найди самую интересную/удобную позу и сделай селфи или фото с друзьями на память.

11

ИГРА СЛОВ. Идя по этому прямому отрезку, сыграй в «игру слов», используя названия птиц, животных и растений, которые ты видишь или знаешь. Начни с одного слова, следующий игрок назовёт слово, которое начинается на последнюю букву предыдущего слова и т.д.

12

ВИД НА ГОРОД С ПТИЧЬЕГО ПОЛЁТА. Сколько башен и башенных кранов ты видишь в силуэте Таллинна?

TAB Tallinn Architecture Biennale
Tallinna Arhitektuuribiennaal
13.09.–27.10.2017
ARHITEKTUURI KESKUS ESTONIAN CENTRE OF ARCHITECTURE
RUUMIRINLGUS
BRITISH COUNCIL
ARHITEKTUURIKOOL

1

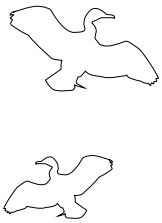

Для информации: Природоохранная зона на полуострове Пальссааре, на территории которой зарегистрировано 233 вида птиц, входит в сеть Европейских птичьих заповедников.

8

Попытка: Попробуй передвигаться до следующего пункта только по камням. Как далеко удалось пройти?

3

Для информации: Это одно из зданий воинской части Военно-Морского флота части СССР, очевидно свинарник.

5



Для размышления: идя в следующий пункт, подумай или обсуди, что из съедобного человек может найти для себя в природе? А что можно выращивать в городе?

4

6

Для размышления: идя в следующий пункт, подумай или обсуди, какие возможности предлагает природа для производства энергии?

11



10

ПОПЫТКА: Сколько вас там поместится?

9

Подсказка: Рост человека соответствует расстоянию размаха рук в сторону.

Для размышления: Шагая в следующий контрольный пункт, подумай и обсуди, как можно сэкономить воду? Как вода загрязняется и как она в природе очищается?

2

Для информации: На Пальяссааре находится много оборонительных сооружений, в том числе и береговая батарея номер 12 Морской крепости Императора Петра Великого. Узкоколейная железная дорога была построена в 1913-1917 годы для соединения батареи и Екатерининского пирса. Обрати внимание на следующее: можешь ли ты определить, где находилась насыпь железной дороги?

7

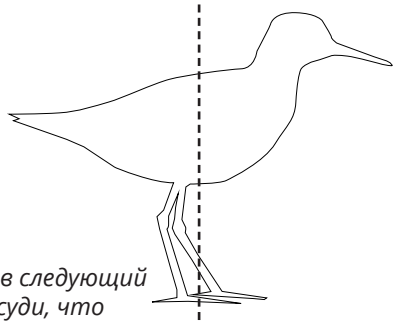

Для размышления: идя в следующий пункт, подумай или обсуди, что такое шум и как звуки влияют на нашу ежедневную жизнь.

12